Enigma Circense

Consegues descobrir o valor deste Enigma? Mais de 90% irão falhar! :o)

www.armazemaerio.com

Nível Difícil

Só para Génios do Ar!

A

= 60

B



= 30

C



= 9

D



= 42

E



= ?

Solução: cada Tecido (vermelho) vale 30 | cada Trapézio (verde) vale 5 | cada Lira (amarelo) vale 2 | cada Rede (azul) vale 20 | Tecido que falta um pano (ou seja falta-lhe metade) vale 10 (20:2) | Rede + Trapézio + Lira vale 27 (20+5+2) | no "E" temos uma conexão, ou seja primeiro temos de fazer a conta da multiplicação (27x2=54) e depois somar o valor da metade do tecido (54+10 = total de 64 :o)